NGỮ VĂN 7- TUẦN 17
ÔN TẬP

<u>ĐỀ 6</u>:

Phần 1: (5 điểm)

Hãy đọc đoạn thơ sau và trả lời các câu hỏi :

"Ôi Tổ quốc, ta yêu như máu thịt
Như mẹ cha ta, như vợ như chồng
Ôi Tổ quốc, nếu cần, ta chết
Cho mỗi ngôi nhà, ngọn núi, con sông."

(Trích "Sao chiến thắng" – Chế Lan Viên)

1. Đoạn thơ trên gợi em nhớ đến bài thơ nào đã học trong chương trình Ngữ văn 7, bài thơ ấy của tác giả nào? Cho biết bài thơ em vừa tìm được viết theo thể thơ gì? **(**1,5 điểm)

2. Tìm một đại từ có trong đoạn thơ trên. Cho biết đại từ đó dùng để làm gì? (1 điểm)

3. Tìm một từ Hán Việt có trong đoạn thơ. Việc dùng từ Hán Việt ấy tạo sắc thái ý nghĩa gì? (1 điểm)

4. Em có nhận xét gì về tình cảm của nhà thơ Chế Lan Viên đối với đất nước qua đoạn thơ trên? Hãy viết một vài câu văn diễn đạt suy nghĩ của em. (1,5 điểm)

<u>ĐỀ 7</u>:

Phần I: (5 điểm)

Đọc đoạn trích sau và trả lời các câu hỏi bên dưới:

"Bà tên thật là Nguyễn Thị Hinh là người phường Nghi Tàm, Hà Nội.Thơ bà thường viết về thiên nhiên, phần lớn là vào lúc trời chiều, gợi lên cái cảm giác vắng lặng và buồn bã. Cảnh trong thơ bà giống như những bức tranh thủy mặc, gợi nỗi sầu bi. Hơn nữa, nói cho đúng thì cảnh trong thơ bà thực tế cũng không phải là cảnh, mà là tình.Tình cảm của bà thường là sự nhớ thương da diết đối với quá khứ vàng son đã một đi không trở lại. Do vậy, người ta gọi bà là nhà thơ hoài cổ."

(Theo Wikipedia)

1/ "Bà" là ai? Nêu tên một tác phẩm của bà mà em đã được học. (1 điểm)

2/ Tìm 2 từ ghép Hán Việt có trong câu "Cảnh trong thơ bà giống như những bức tranh thủy mặc, gợi nỗi sầu bi" (1 điểm)

3/Tìm hai từ thuần Việt đồng nghĩa với hai từ Hán Việt mà em đã tìm được ở câu trên và giải thích vì sao người viết không sử dụng từ thuần Việt trong bài văn của mình. (1.5 điểm)

4/ Từ đoạn trích trên, em hãy viết từ 3-5 câu văn để nói lên nỗi lòng của mình nếu phải xa nhà một thời gian dài. (1.5 điểm)

ĐỀ 8:

Phần 1: (5 điểm)

Hãy đọc đoạn trích sau và trả lời các câu hỏi nêu ở dưới:

Bài thơ "thần" này được coi như bài thơ có tính chất dân gian, đậm đà yếu tố dân tộc, mang nội dung vừa như một bài hịch vừa như một bản tuyên ngôn chân chính khắc họa tinh thần độc lập và bất khuất của nhân dân ta là tất yếu và tất thắng. Tinh thần độc lập và bất khuất hàng nghìn năm đó về sau vẫn bốc lên trong trận Bạch Đằng thứ ba đời Trần, trận Chi Lăng đời Lê, trận Đống Đa đời Tây Sơn và gần đây trong trận Điện Biên Phủ lừng danh thế giới, chiến dịch Hồ Chí Minh chấn động địa cầu.

(Theo Bùi văn Nguyên, giảng văn, tập I, NXB ĐH &THCN, Hà Nội, 1982)

1/ Cho biết tên văn bản, tác giả, thể loại của bài thơ mà đoạn trích đề cập? (1,5 điểm)

2/ Dựa vào đoạn trích, tìm từ: (1 điểm)

a. Đồng nghĩa với từ: coi.

b. Trái nghĩa với từ: sau.

3/ Tìm từ đồng âm với từ: của, năm. (1 điểm)

4/ Viết vài câu văn thể hiện suy nghĩ của em về tình cảm đối với quê hương đất nước. (1,5 điểm)

ĐỀ 9:

Phần I: Đọc hiểu (5 điểm)

Đọc đoạn trích sau và trả lời các câu hỏi:

"Mẹ ơi, con viết thư này cho mẹ bằng những hơi thở cuối cùng con đang cố níu giữ. Đã hơn một tháng nay, tiếng ồn ào làm đôi tai to lúc nào cũng ve vẩy của con cứ úp xuống đầu óc con ù ù. Cỏ cây khô héo, dòng suối trong lành nhất giờ đây cũng bị ô nhiễm bởi rác xả thật kinh khủng. Bây giờ con không còn chỗ để tắm nắng, thức ăn ngày càng khan hiếm, nước đục ngầu. Còn gió nữa, gió mang cả khói bụi làm mắt con cay. Gió đã từng mang những hương hoa lạ phả vào mặt con vào những ngày chớm xuân khi đất trời se lạnh, để con rộng mở lòng mình cho trái

tim sưởi ấm cả khu rừng. Thế mà nay xung quanh con chỉ có tiếng ồn âm thanh của sự bất an, khí độc....”

(Trích Bức thư đoạt giải nhất cuộc thi Viết thư UPU lần thứ 36, năm 2006)

1. Xác định phương thức biểu đạt và nêu nội dung chính của đoạn trích trên. (1,5 điểm)
2. Chỉ ra biện pháp điệp ngữ và nêu tác dụng của phép tu từ ấy trong đoạn trích. (1 điểm)
3. Em hãy tìm từ đồng nghĩa, từ trái nghĩa với từ “*ồn ào*” trong câu: “*Đã hơn một tháng nay, tiếng ồn ào làm đôi tai to lúc nào cũng ve vẩy của con cứ úp xuống đầu óc con ù ù*”. (1 điểm)
4. Em hãy viết vài câu văn nêu cảm nghĩ của em về tình trạng ô nhiễm môi trường trong xã hội ngày nay. (1,5 điểm)

<u>ĐỀ 10</u>:

<u>Phần I:</u> (5 điểm)

Đọc đoạn văn sau và trả lời câu hỏi bên dưới:

“Những ngón chân của bố khum khum, lúc nào cũng như bám vào đất để khỏi trơn ngã. Người ta nói “đấy là bàn chân vất vả”. Gan bàn chân bao giờ cũng xám xịt và lỗ rỗ, bao giờ cũng khuyết mọt miếng, không đầy đặn như gan bàn chân người khác. Mu bàn chân mốc trắng, bong da từng bãi, lại có nốt lấm tấm. Đêm nào bố cũng ngâm nước nóng hòa muối, gãi lấy gãi để rồi xỏ vào đôi guốc mộc. Khi ngủ bố rên, rên vì đau mình, nhưng cũng rên vì nhức chân. Rượu tê thấp không tài nào xoa bóp khỏi.”

(Ngữ văn 7, Tập 1)

a. Tìm 2 từ láy có trong đoạn văn trên? (0.5 điểm)
b. Tìm từ đồng nghĩa với 2 từ *lấm tấm, vất vả?* (0.5 điểm)
c. Nêu nội dung chính của đoạn văn trên? (1 điểm)
d. Đoạn văn giúp em liên tưởng đến người thân của mình. Hãy viết một đoạn văn ngắn cảm nhận về người thân mà em nhớ nhất. Trong đó sử dụng ít nhất 1 quan hệ từ, gạch chân dưới quan hệ từ đó. (3 điểm)

HK1 - Tuần 18 (Từ ngày : 03/01 – 08/01)

TOÁN 7

ĐẠI SỐ

Bài 3. HÀM SỐ

I. LÝ THUYẾT

***Khái niệm:** Với mỗi giá trị của x ta luôn xác định được chỉ một giá trị tương ứng của y thì y được gọi là hàm số của x và x được gọi là biến số

***Vd 1:**

x	4	4	5	8
y	-2	2	3	4

y không phải là hàm số vì x = 4 có đến 2 giá trị là y = -2 và y = 2

***Vd 2:**

x	-2	-1	0	1	2
y	4	1	0	1	4

y là hàm số của x

***Vd 3:** Cho hàm số $y = f(x) = x^2 – 2$. Tính f(2)

Bài làm: Hàm số $y = f(x) = x^2 – 2$

$f(2) = 2^2 – 2 = 2$

***Chú ý:** Khi x thay đổi mà y luôn nhận 1 giá trị:

x	-2	-1	0	1	2	3	4
y	2	2	2	2	2	2	2

Thì y được gọi là hàm hằng.

II. BÀI TẬP

Bài 1. Cho hàm số y = f(x) = -2x. Điền vào chỗ trống:

x	-5	7	-1	10	0						
y						12	24	36	48	60	0

Bài 2. Cho hàm số y = f(x) = $\frac{3}{2}x$. Điền vào chỗ trống:

x	-8	-4	-6	-10	0						
y						4	6	8	44	66	100

Bài 3. Cho hàm số y = f(x) = x^3. Điền vào chỗ trống:

x	1	2	3	-5	-3						
y						8	1	-27	64	1000	125

Bài 4. Cho hàm số y = f(x) được cho bởi công thức y = $-\frac{2}{3}x$

a. Tính f(3); f(0); $f\left(\frac{-15}{16}\right)$; $f(2,7)$; $f\left(-\sqrt{3}\right)$

b. Tìm giá trị của x tương ứng với f(x) = -2; f(x) = $\frac{2}{3}$

c. Điền các giá trị tương ứng vào bảng sau:

x	$-\sqrt{3}$		$-\frac{15}{16}$	0	2,7	
y		$\frac{2}{3}$				3

Bài 5. Cho hàm số y = f(x) = -3x

a. Tính f(3); f(0); $f\left(\frac{-7}{9}\right)$; $f(1,3)$; $f\left(-\sqrt{3}\right)$

b. Tìm giá trị của x tương ứng với y = -12; y = $\frac{7}{15}$

Bài 6. Cho hàm số y = f(x) = $9x^2$ - 2

c. Tính f(0); $f\left(\frac{-1}{3}\right)$; $f\left(3\sqrt{2}\right)$; $f\left(-\frac{1}{3}\sqrt{5}\right)$

d. Tìm giá trị của x tương ứng với f(x) = -1; f(x) = 9

Bài 7. Cho hàm số y = f(x) = |x - 3| - 3

e. Tính f(5); $f(-2)$; $f\left(\sqrt{10}\right)$; $f\left(\sqrt{3}\right)$

f. Tìm giá trị của x tương ứng với f(x) = -3; f(x) = 9

Bài 8. Cho hàm số $y = h(x) = x^3 - 13x + 9$

g. Tính h(-1); h(-2)

h. Tìm giá trị của x tương ứng với h(x) = 9

Bài 9. Cho hàm số $y = f(x) = -\sqrt{5}x - 13$. Tìm các giá trị của x sao cho:

a. y nhận giá tị dương

b. y nhận giá trị âm

Bài 10. Hãy tính a, b, c cảu hàm số:

a. y = f(x) = 2x + b biết f(1) = -1

b. y = g(x) = ax + 7 biết g(2) = 3

c. y = h(x) = ax + b biết h(0) = -3, h(-1) = -5

d. $y = k(x) = ax^2 + bx + c$ biết k(0) = 2, k(1) = 4, k(-2) = 28

e. $y = t(x) = \sqrt{x+b}$ biết t(9) = 4

MẶT PHẲNG TỌA ĐỘ - ĐỒ THỊ HÀM SỐ y = ax (a ≠ 0)

I. LÝ THUYẾT

1. Mặt phẳng tọa độ

Trên mặt phẳng, ta vẽ 2 trục Ox ⊥ Oy tại O

Ta có hệ trục tọa độ Oxy.

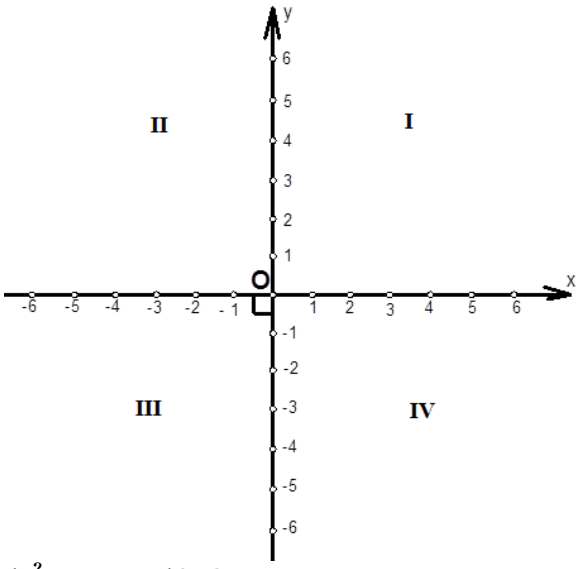

Trong đó:

- Trục Ox gọi là trục hoành

- Trục Oy gọi là trục tung

-Điểm O gọi là gốc tọa độ

Mặt phẳng có hệ trục tọa độ Oxy gọi là mặt phẳng tọa độ Oxy.

**Chú ý:* Đơn vị dài trên 2 trục tọa độ phải chọn bằng nhau.

2. Tọa độ của một điểm trong mặt phẳng tọa độ.

Điểm M có tọa độ (x_0, y_0) được ký hiệu là $M(x_0, y_0)$, x_0 gọi là hoành độ, y_0 gọi là tung độ

Chú ý: hoành độ x_0 luôn đứng trước.

VD. Điểm A có hoành độ x = -3, tung độ y = 2

Kí hiệu: A (-3; 2)

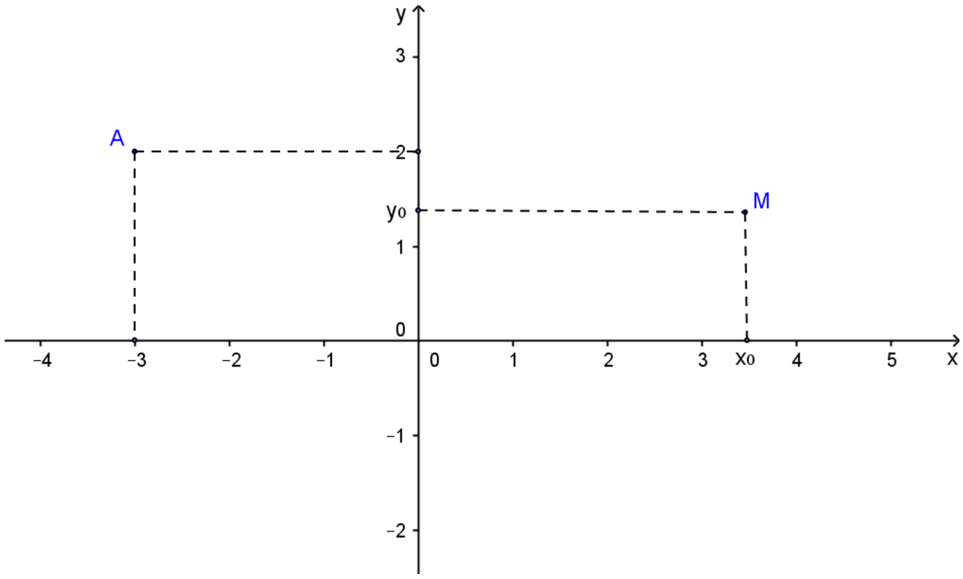

3. Đồ thị hàm số là gì?

Đồ thị hàm số y = f(x) là tập hợp tất cả các điểm biểu diễn các cặp giá trị tương ứng (x; y) trên mặt phẳng tọa độ.

4. Đồ thị hàm số y = ax (a ≠ 0)

+ Đồ thị hàm số y = ax (a ≠ 0) là một đường thẳng đi qua gốc tọa độ.

+ Để vẽ đồ thị hàm số y = ax, ta làm như sau:

-Vẽ hệ trục tọa độ Oxy.

-Xác định thêm một điểm (khác điểm O (0;0))

-Vẽ đường thẳng đi qua điểm đó và gốc tọa độ O

Ta được đồ thị hàm số y = ax

+ VD.

a. Vẽ đồ thị hàm số y = 2x
b. Điểm B (2; 4), C (-1; 2) có thuộc đồ thi hàm số y = 2x không?

<u>Bài làm:</u>

a. Vẽ đồ thị hàm số y = 2x

Với x = 1 => y = 2. 1 = 2, ta được điểm A (1; 2)

Đồ thị hàm số y = 2x là đường thẳng đi qua điểm A (1; 2) và điểm O (0; 0)

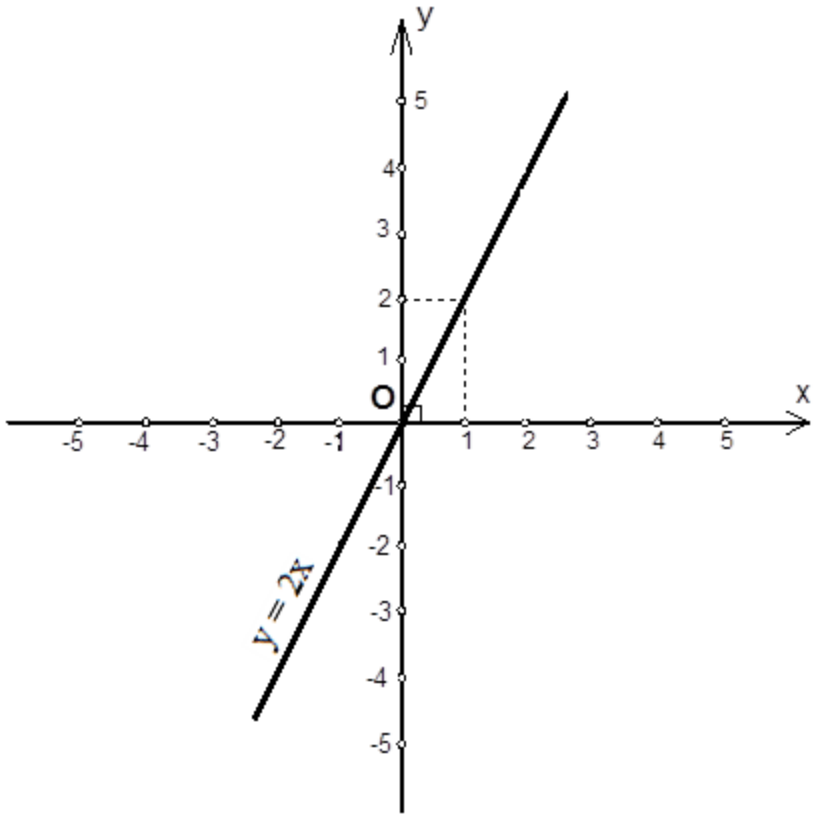

b. * B (2; 4)

Thay x = 2 vào hàm số y = 2x ta được: y = 2. 2 = 4

Vậy B (2; 4) thuộc đồ thị hàm số y = 2x

* C (-1; 2)

Thay x = -1 vào hàm số y = 2x ta được: y = 2. (-1) = -2 ≠ 2

Vậy C (-1; 2) không thuộc đồ thị hàm số y = 2x

II. BÀI TẬP

Bài 1. Cho hàm số y = -4x

a. Vẽ đồ thị hàm số trên.

b. Những điểm nào sau đây thuộc đồ thị hàm số trên: A(5; -20), B(2; 4)?

Bài 2. Cho hàm số y = $\frac{1}{2}$x

a. Vẽ đồ thị hàm số trên.

b. Những điểm nào sau đây thuộc đồ thị hàm số trên: A(2; 1), B(-1; 2), $C\left(\frac{-2}{5};-5\right)$, $D\left(3;\frac{2}{3}\right)$?

Bài 3. Cho hàm số y = ax. Xác định và vẽ đồ thị hàm số biết:

a. Đồ thị hàm số đi qua điểm M(2; -4)

b. Đồ thị hàm số đi qua điểm $N\left(-6;\frac{1}{2}\right)$

Bài 4.

a. Xác định hệ số a biết đồ thị hàm số y = ax đi qua $A\left(2;\frac{-3}{2}\right)$

b. Những điểm nào sau đây thuộc đồ thị hàm số trên: $A\left(4\sqrt{2},-3\sqrt{2}\right)$, $B\left(\frac{-8}{3};-2\right)$?

c. Biết các điểm E(m; 2), F($-4\sqrt{3}$; b) thuộc đồ thị hàm số trên. Tìm m, b.

d. Vẽ đồ thị hàm số trên.

Bài 5.

a. Xác định hệ số a biết đồ thị hàm số y = ax đi qua A(-1; 2)

b. Tìm tạo độ điểm M trên đồ thị có hoành độ bằng -2.

c. Tìm tạo độ điểm N trên đồ thị có tung độ bằng -2.

d. Tìm các giá trị của x khi y > 0; y < 0.

<u>HÌNH HỌC</u>

§6. TAM GIÁC CÂN

I. LÝ THUYẾT

1. Tam giác cân

a. Định nghĩa

Tam giác cân là tam giác có hai cạnh bằng nhau.

VD. ΔABC cân tại A

=> AB = AC

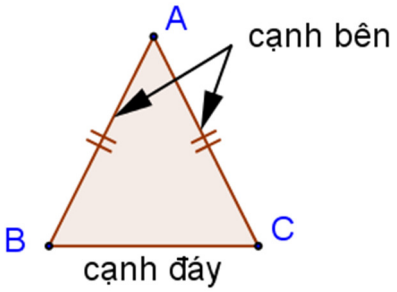

b. Tính chất

Trong tam giác cân hai góc đáy bằng nhau.

VD. ΔABC cân tại A

$$=> \begin{cases} \widehat{B} = \widehat{C} = \dfrac{180^0 - \widehat{A}}{2} \\ \widehat{A} = 180^0 - 2.\widehat{B} \end{cases}$$

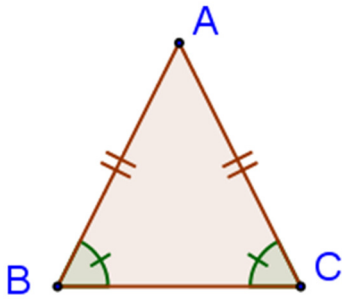

c. Cách chứng minh tam giác cân

Cách 1: Xét ΔABC có:

AB = AC

=> ΔABC cân tại A

Cách 2: Xét ΔABC có:

$\widehat{B} = \widehat{C}$

=> ΔABC cân tại A

2. Tam giác vuông cân

a. Định nghĩa

Tam giác vuông cân là tam giác có hai cạnh góc vuông bằng nhau

ΔABC vuông cân tại A

$$=> \begin{cases} \widehat{A} = 90^0 \\ AB = AC \\ \widehat{B} = \widehat{C} = 45^0 \end{cases}$$

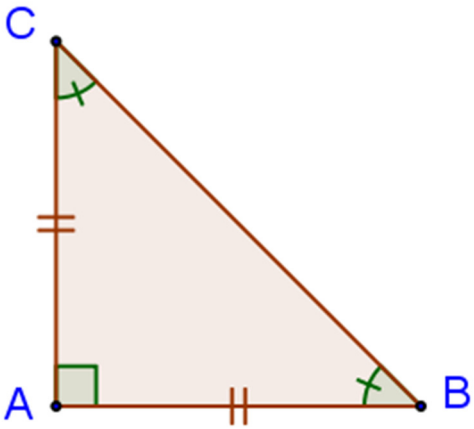

b. Cách chứng minh tam giác vuông cân

Cách 1: Xét ΔABC vuông tại A có:

AB = AC

=> ΔABC vuông cân tại A

Cách 2: Xét ΔABC vuông tại A có: $\widehat{B} = \widehat{C}$

=> ΔABC vuông cân tại A

Cách 3: Xét ΔABC cân A có: $\hat{A} = 90^o$

=> ΔABC vuông cân tại A

3. Tam giác đều

a. Định nghĩa

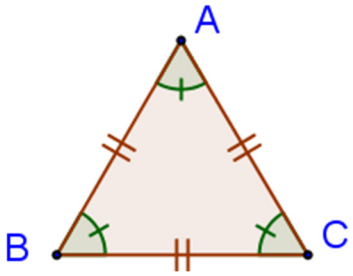

Tam giác đều là tam giác có ba cạnh bằng nhau

ΔABC đều => AB = AC = BC

b. Hệ quả

- Trong một tam giác đều, mỗi góc bằng 60°

  ΔABC đều => $\widehat{A} = \widehat{B} = \widehat{C} = 60^0$

- Nếu một tam giác có ba góc bằng nhau thì tam giác đó là tam giác đều

  Xét ΔABC có: $\widehat{A} = \widehat{B} = \widehat{C}$ => ΔABC đều

- Nếu một tam giác cân có một góc bằng 60° thì tam giác đó là tam giác đều

  Xét ΔABC cân tại A có: $\widehat{A} = 60^0$ => ΔABC đều

II. BÀI TẬP

Bài 1. Cho ΔABC cân tai A có $\widehat{A} = 70^0$. Tính góc B và góc C.

Bài 2. Cho ΔMNE cân tai M có $\widehat{N} = 50^0$. Tính góc M và góc E.

Bài 3. Cho ΔABC cân tai A có $\widehat{A} = 100^0$. Lấy điểm M thuộc cạnh AB, điểm N thuộc cạnh AC sao cho AM = AN. Chứng minh MN // BC

Bài 4. Cho ΔABC cân tai A có $\widehat{A} < 90^0$, kẻ BD vuông góc với AB. Trên cạnh AB lấy điểm E sao cho AE = AD. Chứng minh:

a. DE // BC b. CE ⊥ AB

Bài 5. Cho ΔABC cân tai A. Trên tia đối của tia BC lấy điểm D, trên tia đối của tia CB lấy điểm E sao cho BD = CE. Chứng minh ΔADE là tam giác cân.

Bài 6. Cho ΔABC vuông tai A. Gọi N là trung điểm của AC. Đường trung trực của AC cắt BC tại M.

a. Chứng minh ΔAMC cân tại M

b. Chứng minh ΔMAB cân tại M

c. Xác định số đo $\widehat{AMC}$ và chứng minh ΔMAB là tam giác đều

Bài 7. Cho ΔABC cân tai A. Tia phân giác $\widehat{BAC}$ cắt cạnh BC ở D

a. Chứng minh D là trung điểm của BC

b. Chứng minh AD là đường trung trực của đoạn thẳng BC

Bài 8. Cho ΔABC có hai tia phân giác của hai góc $\widehat{ABC}$ và $\widehat{ACB}$ cắt nhau tại I. Từ I vẽ đường thẳng song song với BC cắt AB tại D và cắt AC tại E.

a. Chứng minh ΔBDI cân

b. Chứng minh BD + CE = DE

Bài 9. Cho ΔABC có tia phân giác của $\widehat{BAC}$ cắt cạnh BC tại D. Từ D kẻ đường thẳng song song với AB căt AC tại E.

a. Chứng minh ΔAED cân

b. Từ E kẻ đường thẳng song song với BC cắt cạnh AB tại F. Chứng minh BF = AE

Bài 10. Cho ΔABC cân tại A có M và N lần lượt là trung điểm của AC và AB. Từ M và N kẻ đường thẳng vuông góc với AC và AB, hai đường thẳng này cắt BC tại D và E. Chứng minh:

a. ΔNAM cân

b. ΔBNE = ΔCMD

c. BD = CE

Bài 11. Cho ΔABC cân tại A. Trên tia đối của tia AB và AC lấy điểm D và E sao cho AD = AE. Vẽ trung tuyến AM của ΔABC. Tia đối của tia AM cắt DE tại H. Chứng minh:

a. EB = DC

b. $\widehat{AHD} = 90^0$

§7. ĐỊNH LÝ PY – TA – GO

I. LÝ THUYẾT

1. Định lý Pytago: Trong một tam giác vuông, bình phương của cạnh huyền bằng tổng các bình phương hai cạnh góc vuông

ΔABC vuông tại A

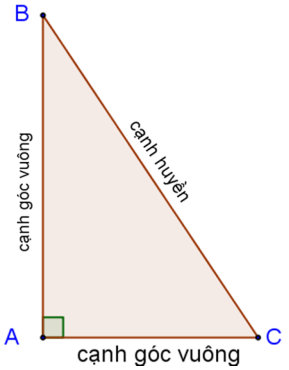

=> $BC^2 = AB^2 + AC^2$ (theo định lý Pytago)

VD. Tìm độ dài x

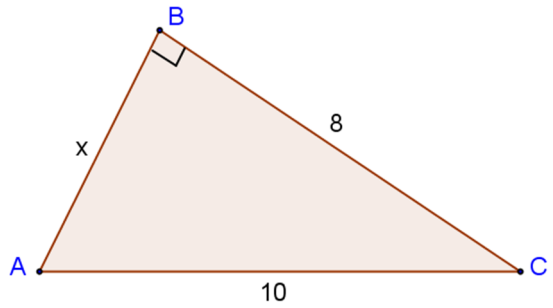 Xét ΔABC vuông tại B ta có: $AC^2 = BA^2 + BC^2$ (theo định lý Pytago) Hay $BA^2 + BC^2 = AC^2$ => $x^2 + 8^2 = 10^2$ $x^2 + 64 = 100$ $x^2 = 100 - 64$ $x^2 = 36$ $x = \sqrt{36}$ $x = 6$	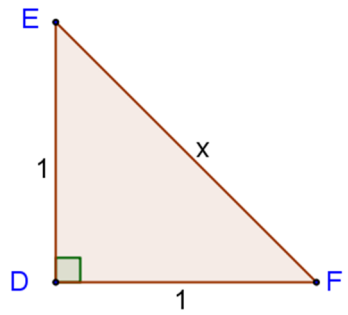 Xét ΔDEF vuông tại D ta có: $EF^2 = DE^2 + DF^2$ (theo định lý Pytago) => $x^2 = 1^2 + 1^2$ $x^2 = 1 + 1$ $x^2 = 2$ $x = \sqrt{2}$

2. **Định lý Pytago đảo:** Nếu một tam giác có bình phương của một cạnh bằng tổng bình phương hai cạnh kia thì tam giác đó là tam giác vuông

Xét ΔABC có $BC^2 = AB^2 + AC^2$

=> ΔABC vuông tại A (theo định lý Pytago đảo)

VD. Cho ΔABC có AB = 3cm, AC=4cm, BC=5cm. Chứng minh ΔABC vuông tại A

Chứng minh

Xét ΔABC ta có:

$$\begin{cases} BC^2 = 5^2 = 25 \\ AB^2 + AC^2 = 3^2 + 4^2 = 9 + 16 = 25 \end{cases}$$

$\Rightarrow BC^2 = AB^2 + AC^2$

=> ΔABC vuông tại A (theo định lý Pytago đảo)

II. BÀI TẬP

Bài 1. Tìm độ dài x, y

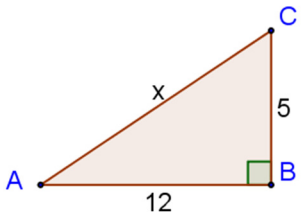

hình 1

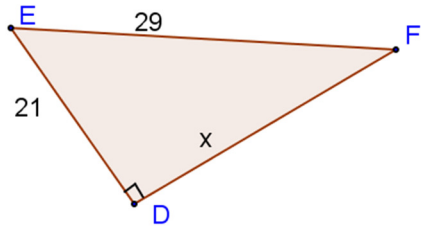

hình 2

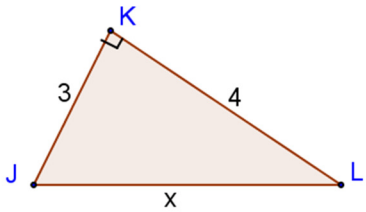

hình 3

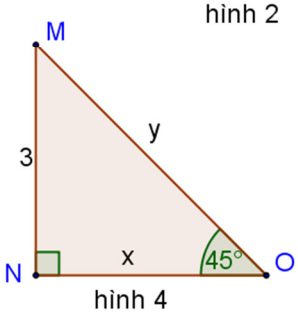

hình 4

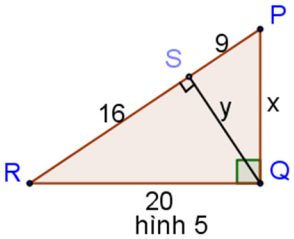

hình 5

Bài 2. Trong các tam giác sau, tam giác nào là tam giác vuông?

a. AB = 25, BC = 7, CA = 24

b. DE = 2, EF = $\sqrt{11}$, FD = $\sqrt{15}$

c. GH = 5, HI = 6, IG = 7

d. KL = 5, LM = 12, MK=13

Bài 3. Cho ΔABC, kẻ AH ⊥BC tại H. Hãy tính AB, AC và chứng minh ΔABC vuông tại A, nếu biết:

a. AH = 12cm, BH = 9cm, CH = 16cm

b. AH = 2cm, BH = 1cm, CH = 4cm

c. AH = $\sqrt{3}$ cm, BH = 1cm, CH = 3cm

Bài 4. Cho ΔABC nhọn, kẻ AH ⊥BC tại H. Hãy tính BC, AC biết:

a. AB = 13cm, AH = 12cm, CH = 16cm

b. AB = 8cm, AH = $\sqrt{48}$ cm, CH = 12cm

c. AB = 12cm, AH = $\sqrt{108}$ cm, CH = 6cm

Bài 5. Cho ΔABC nhọn, kẻ AH ⊥BC tại H. Tính chu vi ΔABC biết:

a. AC = 20cm, AH = 12cm, BH = 5cm

b. AC = $\sqrt{288}$ cm, AH = $\sqrt{32}$ cm, BH = 2cm

Bài 6. Cho ΔABC có AB = 40cm, AC = 30cm, BC = 50 cm, kẻ AH $\perp$BC tại H. Chứng minh ΔABC vuông, tính diện tích ΔABC và tính AH.

Bài 7. Cho ΔABC có AB = 60cm, AC = 80cm, BC = 100cm, kẻ AH $\perp$BC tại H. Chứng minh ΔABC vuông , tính diện tích ΔABC và tính AH, BH, CH.

Bài 8. Cho ΔABC vuông tại A có AB = 16cm, AC = 12cm, kẻ AH $\perp$BC tại H. Tính diện tích ΔABC và tính BC, AH, BH, CH.

PHÒNG GD&ĐT QUẬN TÂN BÌNH
TRƯỜNG THCS TRẦN VĂN QUANG

NỘI DUNG ÔN TẬP KIỂM TRA HỌC KÌ I ANH VĂN 7
NĂM HỌC: 2021 – 2022

* **Nội dung**: Unit 1 đến Unit 7
* **Vocabulary:** Unit 1 đến Unit 7
* **Word form**: Unit 1 – Unit 7

	NOUN	VERB	ADJECTIVE	ADVERB	meaning
1	Action Activity (hoạt động)	Act	Active		Hành động
2	Beauty	Beautify	Beautiful	Beautifully	Đẹp
3	Celebration	Celebrate	celebrated		Kĩ niện lễ
4	Comfort		Comfortable	Comfortably	Thoải mái
5	Convenience		convenient	Conveniently	Thuận tiện
6	Care		Careful Careless	Carefully Carelessly	Cẩn thận
7	Collection (bộ Sưu tầm) Collector (người Sưu tầm)	collect	Collective	Collectively	Sưu tầm
8	Decision	Decide	Decisive	Decisively	Quyết định
9	Difference	Differ	Different	Differently	Khác. Làm khác
10	difficulty		Difficult		Khó khăn
11	Enjoyment	enjoy	(un)enjoyable	Enjoyably	thích
12	Energy		Energetic	Energetically	Năng lượng. năng động
13	Friend		(un) friendly		Bạn, thân thiện

	Friendship				tình bạn
14	Health		(un)healthy		Sức khoẻ, (không)khoẻ mạnh
15	Happiness		(un) happy	(un) happily	(không)Hạnh phúc
16	interest	interest	Interesting interested	Interestingly Interestedly	thích Hay ,thú vị.
17	Invitation	Invite			Mời, lời mời
18	Information	Inform	informative		Thông báo. Thông tin
19	Library Librarian				Thư viện
20	Music musician		Musical		Âm nhạc
21			Regular	Regularly	Thường xuyên
22	Relaxation	Relax	Relaxed Relaxing		Thư giãn
23	Sickness		Sick		Bệnh.ốm
24		Suit	Suitable		Thích hợp
25	Usage	Use	Useful Useless	Usefully Uselessly	Hữu dụng Vô dụng
26	rehearse	rehearsal			Diễn tập

Grammar

1/ take part → participate/ join

2/ Why don't we….→ how about……

What about….

Let's……

3/There is/ are……..→ S+ have/has……

4/ There isn't/aren' any…→There is/are no…….

5/…like….best/most……→…favorite….

6/ comparative

7/ It is Adj to V…..

Ving…. is Adj.

8/ It+ takes + time + to v….

S +take(s) + time + to v….

* **<u>Ôn kỹ các bài tập từ tuần 1 đến tuần 14</u>**

PRACTICE TEST 1

I. Choose the word whose underlined part is pronounced differently from that of the others (0,5 pt)

1. A.energetic B.rehearse C. orchestra D. relax

2 . A.assignment B.environment C.music D.invite

II.Choose the word that has a different stress pattern from that of the others (0,5 pt)

3.A.different B. empty C. pretty D. pollution

4 . A. pagoda B. vacation C. badminton D. potato

II. Multiple choice (3 pts)

5.Her English isn't good. She should _____ doing more exercises.

A. practice B. practices C. learn D. learns

6.I _____ my grandfather next week.

A.visit B.visits C. will visit D. to visit

7. - Nam: "_____ go to the canteen at recess."- Ba: "That's a good idea."

A. Why don't we B. Let's C. How about D. Would you like

8.Would you like to play a game with us? - _____

A. No, I don't like. B. Yes, I like. C. Yes, I'd love to. D. No, I'd love to

9. Minh _____ baseball cards with his friends now.

A. swap B. swaps C. will swap D. is swapping

10. The library has about 20 _____ .

A. employees B. employee C. employers D. employer

11. _____ visiting Halong Bay? –That's a good idea!

A. How about B. Let's C. What about D. A&C are correct

12. Does Nam often play marbles _____recess?

A. on B. at C. in D. between

13. Students have two _____each day.

A. 20-minutes breaksB. 20-minute breaks C. 20-minute break D. 20-minutes break

14. _____do you go to bed? - At nine.

A. What B. Which C. What time D. Where

15. Hanoi is the capital city, but it is _____than HCM City.

A. the smaller B. smaller C. smallest D. small

16. How _____is it from your house to school? – It's about 2 kilometers.

A. old B. much C. far D. often

IV. Signs (0.5 pt)

1. This sign means

A. Children are playing so drivers have to stop.
B. Children have to go to school.
C. Drivers need to drive slowly near a school
D. Be careful when driving a student.

2. This sign means

A. You should not say bad words at school.
B. You can smoke outside school.
C. You must not burn anything here.
D. You are not allowed to smoke at school.

V. Cloze test (1.5 pts)

activities / the / lessons /at / uniform / Cafeteria / are

Schools in the USA (1)_____a little different from schools in Vietnam, there is no school(2)_____. Classes start (3)_____8. 30 A. M every morning and end at 3. 30 P. M in the afternoon. There are no (4)____ on Saturdays or Sundays. Students have one hour for lunch and two 20-minute breaks each day. One break is in (5)_____morning,

the other is in the afternoon. Students often go to the school (6)_____to buy snacks and drinks at a break or at lunchtime. The most popular after school activities are baseball, football and basketball.

VI. Read the passage decide the statements are True or False (1,5 pts)

Hi! I am Hoa. My family name's Nguyen. I will be 13 next year. I live with my family in a small village in Ha Noi. My parents are workers and they work in a factory. Every day, they go to work early in the morning and come back home late in the afternoon. They go to work by motorbike. My school is not far from my house, about one kilometer so I often go to school on foot. I hope my parents will give me a bike on my next birthday. In my free time, I like reading books and listening to music. Sometimes, I go shopping for my mother. I have an **elder** sister. She is Lan and she learns at Ha Noi National University.

1. Hoa is at the age of 13 now.
2. Her mother works as a nurse in a local hospital.
3. Her parents ride a motorbike to work.
4. Her parents will give Hoa a doll on her next birthday.
5. The main topic is

a. Lan and her family b. Lan's activities in a day
c. Her parents' jobs d. Her school

6. The word 'elder' means

a. younger b. bigger c. older d. better

VII. Word form (1 pt)

1. My mother is a _____. She works at a Junior High School. [**LIBRARY**]

2.Talking with friends is a popular _____ at recess. **[ACT]**

3.Nam and Lan would like to visit many ……places. (DIFFER)
4.My uncle likes sailing and enjoys a ……..outdoor life. (HEALTH)

VIII. Transformation (2 pts)

1. Let's go to the movies.

→ How about_____?

2. No one in the class is taller than Nam.

→ Nam is_____

3. She likes English best.

→ *English is* _____

4. The students participate in many different activities after school.

→ *The students take* _____

IX. Rearrange (0,5pt)

1. show / the / Could / me / post office / the / to / you / way ?

→Could.....

2. How / is / from / house / the / market / it / far / your / to?

→..How.....

PRACTICE TEST 2

I. Choose the word whose underlined part is pronounced differently from that of the the others (0,5 pt)

1. A.<u>h</u>omework B.re<u>h</u>earse C.<u>h</u>our D.<u>h</u>ouse

2 . A.r<u>ea</u>der . B.gr<u>ea</u>t C. t<u>ea</u>cher D.r<u>ea</u>ch

<u>Answers</u> 1……2……

II.Choose the word whose main stress pattern is not the same as that of the others (0.5 pt

3/ A. expensive B. delicious C. amazing D. terrible

4/ A. teacher B. journalist C. activity D. reader

Answers 3/.....4/.....

III. Choose the word / phrase (A, B, C or D) that best fits the space in each sentence (3 pts).

5. How is your new school different _____ your old one?

A. for B. to C. from D. in

6. If you want to get a high score in your exam, you should _____ your lessons before tests.

A. rehearse B. review C. celebrate D. look

7. "Why don't we go to the movies?" - "_____"

A. That's a good idea. B. Yes, we do. C. Thank you. D. No, we don't.

8. Da Nang is a big city, but it is _____ than Ho Chi Minh City.

A. the smaller B. the smallest C. smallest D. smaller

9. _____ does Lan have Science class? – Every Tuesday.

A. How often B. How far C. What time D. How long

10. We learn about animals and plants in _____.

A. Geography B. Biology C. History D. Math

11/ Minh Khoi says his favorite _____ at school is Physical Education.

A. subject B. game C. pastime D. activity

12/ My mother grows a lot of trees and vegetables _____ her hobby is gardening.

A. so B. and C. because D. but

13/ At recess, eating and chatting are _____ popular activities of students' relaxation.

A. the less B. the most C. the best D. the more

13/ Mai: "I feel nervous when I am a newcomer in this class, Lan"

Lan : " _____. Everyone will help you. We are also classmates now.

A. I'm not sure B. Don't worry C. You're welcome D. Good idea.

15/ _____do you go to school? - I ride my bicycle.

A. What B. When C. How D. Why

16/ My classmates are interested_____watching Spiderman.

A. at B. on C. for D. in

Answers 5…….6……7……8……..9……10……

11/.....12/.....13/.....14/.....15/.....16/.....

IV. CAUTION SIGNS – WARNINGS (0.5 pt)

	17/ *What does the sign mean?* A. Do not water the grass. B. Do not walk on the grass. C. Do not pick flowers. D. Do not grow vegetables.

	18/ *What does the sign mean?* A. All traffic turn left. B. No left turn. C. No U-turn. D. Truck route to the left.

V. CLOZE TEST: Read the passage, choose the correct word A, B, C or D (1.5pts)

and / from / interested / libraries / has / new / important

Books play a very (19) _____part in our life. It's true that every family (20) _____ books. We can see books everywhere. We can learn many things (21) _____ books. Books help us in self-education and deciding problems in life.

Today, there are a lot of public (22) _____in our country and all people have the right to go to use them.

Each year hundreds of (23) _____ books for children appear in Vietnam. The books are very interesting (24) _____ children like reading them very much.

VI. READING COMPREHENSION: Read the following passage and then decide whether the statements that follow are True or False (1.5 pts)

Nattie has breakfast at 6:30. He has a loaf of bread with pate in it. He takes a cup of hot tea, too. It's his favorite drink. At 11:30, after school, his mom prepares for him a meal with fried chicken, beefsteak and rice. It's **yummy.** He likes beefsteak so much. Dinner is around 6 o'clock. He doesn't like salad for dinner but eats some noodles with tomato sauce. He drinks a box of guava juice as dessert.

25. Nattie has a loaf of pate bread for lunch.
26. His favorite drink for breakfast is hot tea .
27. He has lunch at school.
28. He has a box of soda after dinner.
29. What does "***yummy"*** mean?

A. horrible B. awful C. beautiful D. delicious

30. What should the title for the text be?

A. Daily meals for Nattie B. Nattie- a boy of a big appetite

C. Eat healthy D. My favorite food

Answers 25/……..26/……..27/……..28/……..29/……..30/……..

VII. WORD FORMS:Use the correct form of the word in the blanks (1.0 pt)

31/ Nam is ____ in lying on a couch and watching TV. (interest)

32/ Baseball is a popular after-school _____in America . (act)

33/Thanks for_____me to your wedding. (invite)

34/ Students have a lot of _____ in doing experiments. (difficult)

Answers 31/ ……32/ ……....33/ ……....34/ ……..…..…

VIII. Rearrange sentences from the words given (0.5 pt)

35/ review / before / students / tests / have to / their work /.

→ Students _____

36/ the guitar / she / such as / a musical instrument / learns to play.

→ She _____

IX. Rewrite the following sentences without changing the meaning (2pts).

37/ Would you like to come with us to the cafeteria?

→ **What about** _____?

38/ What subject do you like best?

→ **What is your** _____ _____?

39/ Trang is taller than other school girls in her class.

→ **Trang is the** _____

40/ Collecting stamps is interesting.

→ **It's interesting** _____

PRACTICE TEST 3

I. Choose the word whose underlined part is pronounced differently from that of the the others (0,5 pt)

1. A. P<u>e</u>ncil B. sp<u>e</u>nd C. <u>e</u>nd D. m<u>ee</u>ting

2. Gl<u>a</u>ss b. m<u>a</u>ss C. <u>a</u>fter D. b<u>a</u>g

II.Choose the word whose main stress pattern is not the same as that of the others (0.5 pt

3. A. pagoda B. vacation C. badminton D. potato

4. A. amazing B. routine C. stadium D. between

III. Choose the word / phrase (A, B, C or D) that best fits the space in each sentence (3 pts).

5. Her home _____ is 19 Tran Hung Dao Street.
a. Address b. ID number c. nick name d. telephone number

6. My new school is _____ my old school
a. bigger and more beautiful than b. more big and more beautiful than
c. bigger and beautifuler than d. more big and more beautifuler than

7. We'll meet at 6.45 p.m. _____
A. Be late ! B. Don't be late! C. Late ! D. Don't late!

8. What's your _____?
A. day of birth B. date of birth C. birthday D. birthdate

9. Would you like some coffee? – " _____."
A.Yes, please B. Yes, I like it. C. Yes, I'd love to D. You're welcome.

10. This building is the _____ in town.
A. new B. newer C. newest D. newest than

11. Hoa _____ a nice dress today.
A. wear B. wears C. wearing D. is wearing

12. What time is it? - It _____ four fifteen.
A. is B. has C. at D. are

13. They put the chairs _____ the middle of their garden.
A. in B. at C. on D. of

14. . _____ a beautiful house!

A. How B. Why C. What D. Which

15. They take care of us when our parents are away.

A. look at B. look into C. look in D. look after

16. Russia is _____ country in the world.

A. bigger than B. the biggest C. the bigger D. biggest than

17. I have _____ good information for you.

A. many B. some C. a D. much

18. . Thi has Physics.....Tuesday ..... 7. 30.

A. on-at B. from-to C. at-on D. at- to

19. . .... racks have magazines and newspapers.

A. That B. This C. These D. There

20. You can find Math books ..... the shelves ..... the left.

A. on-on B. on-at C. in-on D. at-on

Answers 5…….6……7……8……9……10……

11/.....12/.....13/.....14/.....15/.....16/.....

IV. CAUTION SIGNS – WARNINGS (0.5 pt)

17) What does the sign want us to do?	A. You should talk here. B. You shouldn't talk here. C. You can sing here. D. You have to read book here.
18) What does the sign say?	A. Cars don't be allowed in this street. B. Allow to go in this street. C. Can go ahead. D. Can't turn left.

V. CLOZE TEST: Read the passage, choose the correct word A, B, C or D (1.5pts)

- sits -is -more -are using- sitting- brings- chatting

Trang (19) _____ at the school library. It's only 8 o'clock but the library is very crowded. Although everybody is busy with their work, it's very quiet here. Some students (20) _____ computers to search the books they need. Some are borrowing books at the counter. The librarians are lending them the books. Most students (21) _____ the books they borrow to the reading room and reading them there. A few put the books in their bags and leave the room in a hurry: this is Trang's fifth time to the library. She never (22) _____ here to read books. She always comes to borrow and return the books. Trang feels sorry for the time she usually spend (23)_____ with friends at home on the phone. I will come here to study (24) _____ often this year, Trang said to herself.

VI. READING COMPREHENSION: Read the following passage and then decide whether the statements that follow are True or False (1.5 pts)

I am Linh and this is Nam, my younger brother. I learn at Tran Phu secondary school and Nam learns at Le Loi primary school. Everyday, we get up at 5.30 and do morning exercises and play volleyball to 6.15. after that, we have breakfast at 6.30 and go to school at 6.45. I learn a lot of subjects such as English, Literature, Math, Geography, Chemistry and other subjects. English and Literature are my favorite subjects. In the afternoon, I do my homework, the housework and play table tennis with my younger brother. I often go to the school library on Thursday afternoon or on Saturday afternoon to read reference books **there**.

25. Linh's brother studies at a primary school.
26. They usually do morning exercises and play basketball in the morning.
27. One of her favorite subjects is Math.
28. Linh sometimes goes to the library to read reference book.
29. The passage is about _____

A. Linh's housework. B. Linh's subjects
C. Linh's routine D. Linh's school

30. What does the word "**there**" refer to?

A. school B. house
C. library D. classroom

VII. WORD FORMS:Use the correct form of the word in the blanks (1.0 pt)

31. Ba is _____a play with his friends now. (rehearsal)
32. Students feel happy and _____ during recess.(enjoy)
33. The Dan Bau is a Vietnamese traditional _____ instrument. (music)
34. Vietnam is _____ from Thailand. (difference)

Answers 31/ ……32/ …….....33/ …….…....34/ ……..…..…

VIII. Rearrange sentences from the words given (0.5 pt)

35. often/ reads / He / dinner. / newspaper / after
-> He _____

36. Literature / will / at / forty. / our / class / start / eight
->Our_____

IX. Rewrite the following sentences without changing the meaning (2pts).

37. Which subject do you like best?

-> What_____

38. Why don't we change our uniform?

-> What about _____

39. In my timetable, there isn't English class on Tuesday.

-> I have _____

40. There are eight hundred stamps in Hoa's collection.

→Hoa's collection has _____

PRACTICE TEST 4

I. Choose the word whose underlined part is pronounced differently from that of the the others (0,5 pt)

1. A complaint B.campaign C. painter D. dialogue
2. A. imagine B. invite C. finish D. thirty

Answers 1……2……

II.Choose the word whose main stress pattern is not the same as that of the others (0.5 pt

3. A popular b. practice c. along d.volleyball
4. a. anniversary b. wedding c. welcome d.Housework

Answers 3/.....4/.....

II. Choose the word / phrase (A, B, C or D) that best fits the space in each sentence (3 pts).

5. We're going to play badminton. Why don't you come _____?
a. in b. across c. out d. along

6. Minh _____ watching cartoon at home.
a. likes b. enjoys c. is interested in d. all are correct

7. Would you like to come to Lan's house? - _____
a. Yes, I do b. I'd love to c. Yes, I like d. OK. I'd like

8. Hoa is very good _____ writing essay.
a. of b. in c. at d. for

9. My sister loves _____stamps
A. collect B. is collecting C. collecting D. collects

10. Mr. Tuan has _____days off than Mr. Jones
A. many B. less C. fewer D. much

11. Which Vietnamese vacation is _____?
A. long B. longer C. the longest D. the longer

12. He usually works very _____before tests.
A. keen B. hardly C. hard D. keenly

13. My birthday is _____April 4th.
A. in B. at C. on D. for

14. A cage for chicken is a _____.
A. chicken shed B. chicken coop C. buffalo shed D. animal shed

15. This book is _____ interesting of the three.
A. most B. more C. the most D. the more

16. Thanh helps children to learn. She is a _____.
A. doctor B. teacher C. musician D. dentist

Answers 5…….6……7……8……..9……10……

11/.....12/.....13/.....14/.....15/.....16/.....

III. CAUTION SIGNS – WARNINGS (0.5 pt)

17.What does this road sign mean?	A. housing B. horse racing C. hospital D. hills
18. What does this road sign mean?	A. no parking B. bicycles are allowed on this road C. no stopping D. no bicycles are allowed on this road

V. CLOZE TEST: Read the passage, choose the correct word A, B, C or D (1.5pts)

At /care/when/ homeless/ days off/ three-week/ on

Tim goes to junior high school in California. He's Hoa's pen pal. His mother works (19) _____ home. She takes (20) _____ of the family. Three mornings a week, she works part-time at a local supermarket. She and other women also cook lunch for (21) _____ people once a week. His father works five days a week for about 40 hours. He has fewer (22) _____ than his mother. His father has a (23) _____ summer vacation and his family always goes to Florida (24) _____ vacation.

VI. READING COMPREHENSION: Read the following passage and then decide whether the statements that follow are True or False (1.5 pts)

July 2nd

Dear Tim,

Thanks for your letter. I am very glad to hear that you are fine. I am fine, too. It's really ***interesting*** to know about vacations of American students.

You are right. We have fewer vacations than American students. Each year, we just have about four vacations. We have a day off for Independent Day on September 2nd, two days off on April 30th and May Day. Our most important vacation is Tet. Tet holiday often lasts for nine or ten days. Our longest vacation is summer vacation. It lasts for

almost three months. We usually spend our vacation time with our families. We don't have vacations for Easter, Thanksgiving and Christmas, but we also celebrate them.

Please write and tell me your last summer vacation.

Your friend,

Hoa

25. American students have more vacations than Vietnamese ones.
26. Tet holiday lasts for one week.
27. In Vietnam, no other vacations are longer than summer vacation.
28. Vietnamese students have days off for Christmas.
29. What does the word "*interesting*" mean?

A. boring B. hard C. exciting D. nervous

30. The passage is about _____.

A. The vacations that American students have each year.
B. The vacations that Vietnamese students have each year.
C. What Tim does during his vacations.
D. Hoa will go to America to learn English.

Answers 25/……..26/……..27/……..28/……..29/……..30/……..

VII. WORD FORMS:Use the correct form of the word in the blanks (1.0 pt)

31. My brother is one of the stamp _____.(collection)

32. Children in the city are living more _____ than those in the countryside. (comfort)

33.Lan will ……..some of her friends to her birthday next week. (invitation)

34.I hope you'll join in our Christmas (celebrate)_____.

VIII. Rearrange sentences from the words given (0.5 pt)

35.aren't / at the moment / good movies on / there / any.

→There……

36. the guitar / she / such as / a musical instrument / learns to play.

→She……

IX. Rewrite the following sentences without changing the meaning (2pts).

37. Let's play chess tonight.
    ➔ Why don't we…….
38. He takes part in playing marbles.
    He joins…….

39. I spend two days drawing the vase.
    It takes me.....
40. Lan is 152cm tall. Minh is 172cm tall.
Minh is……

PRACTICE TEST 5

I. Choose the word whose underlined part is pronounced differently from that of the the others (0,5 pt)

1. A. b<u>o</u>dy B. fav<u>o</u>rite C. n<u>o</u>vel D. imp<u>o</u>rtant

2 A. ph<u>y</u>sics . B. histor<u>y</u> C. Geograph<u>y</u> D. beautif<u>y</u>

<u>Answers</u> 1……2……

<u>II.Choose the word whose main stress pattern is not the same as that of the others (0.5 pt</u>

3.a. lazy b. holiday c. atlas d. rehearse
4.a. public b. comic c. vacation d. typical

<u>Answers</u> 3/.....4/.....

<u>III. Choose the word / phrase (A, B, C or D) that best fits the space in each sentence (3 pts).</u>

5._____ does she go to the library? – 3 times a week.
a. How much time b. How often
c. How many times d. How long
6. How about _____ to the concert?
a. go b. goes c. going d. to go
7. My brother knows how to <u>repair</u> the guitar.
a. use b. play c. fix d. practice
8. Why don't we _____ to the radio?
a.listen b.listening c.is listening d.listens
9.In Science class, students _____ some experiments.
A. do B. play C. work D. make
10. People wash their dirty clothes with a _____.

A. dishwasher B. bathtub C. washing machine D. bookshelf

11. Jane: Would you like some orange juice?
Kate: _____

A. Sure, I'd love some B. No, I'm not C. Yes, I am D. Yes, it is

12. I think this shirt _____ for your body.

A. are the most suitable B. is more suitable than

C. is the most suitable D. are more suitable than

13. It _____her two hours each day to do her homework.

A. take B. needs C. takes D. wants

14. 2. Students in America don't wear school _____.

A. uniform B. clothes C. form D. cloth

15. _____do you have the English class? - Every Thursday morning.

A. What B. How often C. When D. What time

16. My father earns _____ money than my mother.

A. fewer B. much C. more D. a little

Answers 5…….6……7……8……..9……10…….

11/.....12/.....13/.....14/.....15/.....16/.....

IV. CAUTION SIGNS – WARNINGS (0.5 pt)

17) What does the sign say?	A. You can park here. B. You can't park here. C. No parking. D. Don't park here.
18) What does the sign want us to do?	A. Turn right. B. Turn left. C. Don't turn right. D. Go straight ahead.

V. CLOZE TEST: Read the passage, choose the correct word A, B, C or D (1.5pts)

least/ better/ why / larger/ about/ changing/ most/

Interviewer: Excuse me. Can I ask you some questions about this health club?

Kien: Yes, of course.

Interviewer: First of all. (19) _____ do you come to the health club?

Kien: Because I feel fitter and healthier.

Interviewer: Fine. And how can we make the health club (20) _____ than it is now?

Kien: Hmm. We need bigger (21) _____ rooms. They're the worst part of the club. Yes, they are the (22) _____ important thing for me.

Interviewer: I see. What about the price?

Kien: Yes, this is the most expensive club in the town. The Youth club is (23) _____ but it's cheaper. It is (24) _____ 30.000 VND a month.

Interviewer: Good, thank you very much.

VI. READING COMPREHENSION: Read the following passage and then decide whether the statements that follow are True or False (1.5 pts)

Hi, I am John and this is my son, Mike. He learns at a big school near our apartment. He goes to school from Monday to Friday and doesn't go to school on the weekend. At school, he studies many **things**. He is very interested in Math and Chemistry because they are his favorite subjects. At recess when his classes finish, Mike often plays basketball and he plays it very well. He sometimes plays football, too. In his free time, he always listens to music and learns how to sing. He hopes he will become a Pop singer in the future.

Answer True or False.

25. Mike's school is not very big.

26. He doesn't have classes on the weekend.

27. He studies many things except for Math and Chemistry.

28. At recess, he can only play basketball.

29. Which of the following sentence is incorrect?

A. Mike's apartment is close to his school.
B. Mike has to go to school 5 days a week.

C. Mike loves playing sport at recess.
D. Mike loves singing but he doesn't want to be a singer.

30. Which word has the closest meaning to the word "**things**"?

A. schools B. subjects C. classes D. times

Answers 25/……..26/……..27/……..28/……..29/……..30/……..

VII. WORD FORMS:Use the correct form of the word in the blanks (1.0 pt)

31. Ba takes part in many activities after school.He is a _____student. (energy)

32. I think this skirt is_____ for your body.(suit)

33. If you want to have a_____ body you should play sport. (health)

34. He plays soccer_____ (beauty).

VIII. Rearrange sentences from the words given (0.5 pt)

35I / around. / I / learning, / often / everything / when / forget / am
->I_____
36. tomorrow. / will / go / school / We / not / to
->We_____

IX. Rewrite the following sentences without changing the meaning (2pts).

37. My father spends 20 minutes traveling to work by car.

It takes _____.

38. Nobody is more intelligent than Tom in class 7 A

Tom is _____

39. Learning English is interesting

-> It is_____

40. There aren't any flowers on the table.

-> The table _____

VẬT LÝ 7

TRẮC NGHIỆM CHƯƠNG: ÂM HỌC

Bài 1: Hãy chọn câu trả lời **sai**:
A. Nguồn âm là vật phát ra âm thanh.
B. Khi gõ dùi vào trống thì mặt trống rung động phát ra âm thanh.
C. Khi dùng búa cao su gõ nhẹ vào âm thoa thì âm thoa dao động phát ra âm thanh.
D. Khi thổi sáo thì nguồn phát ra âm thanh là các lỗ sáo.

Bài 2: Khi người ta dùng dùi gõ vào các thanh đá thuộc bộ đàn đá thì ta nghe thấy âm thanh phát ra. Vật phát ra âm thanh đó là:
A. dùi gõ B. các thanh đá
C. lớp không khí D. dùi gõ và các thanh đá

Bài 3: Kéo căng sợi dây cao su. Dùng tay bật sợi dây cao su đó, ta nghe thấy âm thanh.
Nguồn âm là:
A. sợi dây cao su B. bàn tay
C. không khí D. Cả A và C

Bài 4: Khi bầu trời xung quanh ta có dông, ta thường nghe thấy tiếng sấm. Nguồn âm phát ra là:
A. các lớp không khí va chạm nhau.
B. do nhiều hơi nước trong không khí va chạm nhau.
C. lớp không khí ở đó dao động mạnh.
D. lớp không khí ở đó bị nén mạnh.

Bài 5: Khi luồng gió thổi qua rừng cây, ta nghe thấy âm thanh phát ra. Vật phát ra âm thanh là:
A. luồng gió B. luồng gió và lá cây
C. lá cây D. thân cây

Bài 6: Lựa chọn phương án **đúng**?
Dùng búa gõ xuống mặt bàn. Ta nghe thấy âm thanh phát ra thì:
A. Mặt bàn không phải là vật dao động vì ta thấy mặt bàn đứng yên.
B. Mặt bàn là vật dao động vì mặt bàn dao động rất nhanh, ta không thấy được.
C. Búa là vật dao dộng vì nhờ có búa mới tạo ra âm thanh.
D. Tay là nguồn âm vì tay dùng búa gõ xuống bàn làm phát ra âm thanh.

Bài 7: Khi ta đang nghe đài thì:
A. màng loa của đài bị nén lại B. màng loa của đài bị bẹp lại
C. màng loa của đài dao động D. màng loa của đài bị căng ra

Bài 8: Chuyển động như thế nào gọi là dao động?
A. Chuyển động theo một đường tròn.
B. Chuyển động của vật được ném lên cao.
C. Chuyển động lặp đi lặp lại nhiều lần theo hai chiều quanh một vị trí.
D. Cả 3 dạng chuyển động trên

Bài 9: Khi gảy vào dây đàn đàn ghita thì người ta nghe được âm thanh phát ra. Vật phát ra âm thanh đó là:
A. Dây đàn dao động B. Không khí xung quanh dây đàn
C. Hộp đàn D. Ngón tay gảy đàn

Bài 10: Ta nghe được tiếng nói của diễn viên trên tivi. Vậy đâu là nguồn âm?
A. Người diễn viên phát ra âm.

B. Sóng vô tuyến truyền trong không gian dao động phát ra âm.
C. Màn hình tivi dao động phát ra âm
D. Màng loa trong tivi dao động phát ra âm

Bài 11: Khi gõ vào mặt trống thì mặt trống rung động phát ra âm thanh. Nhưng khi cho con lắc dao động thì không nghe thấy âm thanh. Có người giải thích như sau, chọn câu giải thích **đúng**?

A. Con lắc không phải là nguồn âm.
B. Con lắc là nguồn phát ra âm thanh nhưng tần số nhỏ (hạ âm) nên tai người không nghe được.
C. Vì dây của con lắc ngắn nên con lắc không có khả năng phát ra âm thanh.
D. Con lắc chuyển động nên không phát ra âm thanh.

Bài 12: Tần số dao động càng cao thì

A. âm nghe càng trầm B. âm nghe càng to
C. âm nghe càng vang xa D. âm nghe càng bổng

Bài 13: Một con lắc thực hiện 20 dao động trong 10 giây. Tần số dao động của con lắc này là:

A. 2Hz B. 0,5Hz C. 2s D. 0,5s

Bài 14: Kết luận nào sau đây là **sai**?

A. Tai của người nghe được hạ âm và siêu âm.
B. Hạ âm là những âm thanh có tần số nhỏ hơn 20Hz.
C. Máy phát siêu âm là máy phát ra âm thanh có tần số lớn hơn 20000Hz.
D. Một số động vật có thể nghe được âm thanh mà tai người không nghe được.

Bài 15: Chọn phát biểu **đúng**?

A. Tần số là số dao động vật thực hiện được trong một khoảng thời gian nào đó.
B. Đơn vị tần số là giây (s).
C. Tần số là đại lượng không có đơn vị.
D. Tần số là số dao động thực hiện được trong 1 giây.

Bài 16: Khi điều chỉnh dây đàn thì tần số phát ra sẽ thay đổi. Dây đàn càng căng thì âm phát ra càng

A. to B. bổng C. thấp D. bé

Bài 17: Hãy xác định dao động nào có tần số lớn nhất trong số các dao động sau đây?

A. Vật trong 5 giây có 500 dao động và phát ra âm thanh.
B. Vật dao động phát ra âm thanh có tần số 200Hz.
C. Trong 1 giây vật dao động được 70 dao động.
D. Trong một phút vật dao động được 1000 dao động.

Bài 18: Một vật dao động với tần số 50Hz, vậy số dao động của vật trong 5 giây sẽ là:

A. 10 B. 55 C. 250 D. 45

Bài 19: So sánh tần số dao động của các nốt nhạc RÊ và MI, của các nốt nhạc RÊ và FA:

A. Tần số của nốt nhạc RÊ nhỏ hơn MI, RÊ bằng FA.
B. Tần số của nốt nhạc RÊ nhỏ hơn MI, RÊ lớn hơn FA.
C. Tần số của nốt nhạc RÊ lớn hơn MI, RÊ nhỏ hơn FA.
D. Tần số của nốt nhạc RÊ nhỏ hơn MI, RÊ nhỏ hơn FA.

Bài 20: Một vật dao động phát ra âm có tần số 50Hz. Thời gian để vật thực hiện được 200 dao động là

A. 2,5s B. 4s C. 5s D. 0,25s

Bài 21: Âm phát ra nhỏ hơn khi nào?

A. Khi biên độ dao động lớn hơn B. Khi biên độ dao động nhỏ hơn

C. Khi tần số dao động lớn hơn D. Khi tần số dao động nhỏ hơn.

Bài 22: Âm phát ra càng to khi

A. nguồn âm có kích thước càng lớn.

B. nguồn âm dao động càng mạnh.

C. nguồn âm dao động càng nhanh.

D. nguồn âm có khối lượng càng lớn.

Bài 23: Ngưỡng đau có thể làm điếc tai là:

A. 60 dB B. 100 dB C. 130 dB D. 150 dB

Bài 24: Khi truyền đi xa, đại lượng nào sau đây của âm đã thay đổi?

A. Biên độ và tần số dao động của âm.

B. Tần số dao động của âm.

C. Vận tốc truyền âm.

D. Biên độ dao động của âm.

Bài 25: Biên độ dao động của vật là:

A. số dao động vật thực hiện được trong 1 giây.

B. khoảng cách lớn nhất giữa hai vị trí mà vật dao động thực hiện được.

C. đại lượng đặc trưng cho mức độ cao, thấp của âm.

D. độ lệch lớn nhất của vật dao động so với vị trí cân bằng.

Bài 26: Hãy chọn câu trả lời **đúng nhất** khi quan sát dao động một dây đàn?

A. Dây đàn càng dài, âm phát ra càng cao.

B. Dây đàn càng to, âm phát ra càng cao.

C. Biên độ dao động của dây đàn càng lớn thì âm phát ra càng to.

D. dây đàn càng căng, âm phát ra càng to.

Bài 27: Khi đo độ to của các âm thanh, âm thanh của tiếng nói chuyện bình thường có độ to là:

A. 40 dB B. 50 dB C. 60 dB D. 70 dB

Bài 28: Có 4 con lắc đơn giống nhau, lần lượt kéo con lắc lệch 30^0, 40^0, 45^0, 60^0 so với vị trí cân bằng rồi thả nhẹ. Biên độ dao động của con lắc nào là lớn nhất?

A. Con lắc lệch 30^0 B. Con lắc lệch 40^0

C. Con lắc lệch 45^0 D. Con lắc lệch 60^0

Bài 29: Khi biên độ dao động càng lớn thì:

A. âm phát ra càng to B. âm phát ra càng nhỏ

C. âm càng bổng D. âm càng trầm.

Bài 30: Dùng búa cao su gõ nhẹ vào một âm thoa thì nghe được âm do âm thoa dao động và phát ra âm thanh. Hãy chọn câu kết luận đúng sau:

A. Gõ càng mạnh âm thanh phát ra càng to.

B. Gõ càng nhiều âm thanh phát ra càng to.

C. Gõ càng mạnh âm thanh phát ra càng cao.

D. Âm thanh phát ra càng to khi âm thoa càng lớn.

Bài 31: Khi nghiên cứu sự truyền âm thanh, người ta đã có những nhận xét sau. Hãy chọn câu trả lời **sai**:

A. Để nghe được âm thanh từ vật phát ra thì phải có môi trường truyền âm.

B. Không khí càng loãng thì sự truyền âm càng kém.

C. Sự truyền âm thanh là sự truyền dao động âm.

D. Không khí là môi trường truyền âm tốt nhất.

Bài 32: Vận tốc truyền âm trong các môi trường được sắp xếp theo thứ tự tăng dần là:

A. Rắn, lỏng, khí B. Lỏng, khí, rắn
C. Khí, lỏng, rắn D. Rắn, khí, lỏng

Bài 33: Trong các môi trường sau, môi trường nào không thể truyền được âm: Nước sôi, tấm nhựa, chân không, cao su?

A. Tấm nhựa B. Chân không
C. Nước sôi D. Cao su

Bài 34: Cho vận tốc truyền âm trong không khí là 340 m/s và trong nước là 1500 m/s. Vận tốc truyền âm trong thanh nhôm ở cùng điều kiện nhiệt độ **có thể nhận** giá trị nào sau đây?

A. 340 m/s B. 170 m/s C. 6420 m/s D. 1500 m/s

Bài 35: Gọi t_1, t_2, t_3 lần lượt là thời gian âm truyền trong các môi trường rắn, lỏng, khí ở cùng điều kiện nhiệt độ và khoảng cách. Khi so sánh t_1, t_2, t_3 thứ tự tăng dần là:

A. $t_1 < t_2 < t_3$ B. $t_3 < t_2 < t_1$
C. $t_2 < t_1 < t_3$ D. $t_3 < t_1 < t_2$

Bài 36: Trong môi trường nào mà cứ 2 giây thì âm thanh lan truyền được 3000 mét?

A. Nước B. không khí C. Thép D. Nhôm

Bài 37: Nước có thể tồn tại ở ba thể là: rắn, lỏng, khí. Hãy chỉ ra nội dung nào sai trong các nội dung dưới đây?

A. Trong ba thể: rắn, lỏng, khí thì ở trạng thái rắn, nước truyền âm tốt nhất.
B. Trong ba thể: rắn, lỏng, khí thì ở trạng thái khí, nước truyền âm kém nhất.
C. Tốc độ truyền âm giảm theo thứ tự từ rắn, lỏng, khí.
D. Vì cùng là nước nên tốc độ truyền âm như nhau.

Bài 38: Âm truyền nhanh nhất trong trường hợp nào dưới đây?

A. Nước B. Sắt C. Khí O_2 D. Chân không

Bài 39: Khi lặn xuống hồ, một người thợ lặn nghe được tiếng chuông sau 1/20 giây kể từ khi nó reo. Biết đồng hồ cũng được đặt chìm trong nước, hỏi khoảng cách giữa nó và người thợ lặn lúc này là bao nhiêu?

A. 35 m B. 17 m C. 75 m D. 305 m

Bài 40: Một đoàn tàu bắt đầu chuyển động trong sân ga sau khi dừng ở đấy một thời gian. Hỏi bao lâu sau thì một người ở cách ga 2km và áp tai vào đường sắt thì nghe thấy tiếng tàu chạy? Biết vận tốc âm truyền trong đường ray là 6100 m/s.

A. 1200 s B. 3050 s C. 3,05 s D. 0,328 s

SINH HỌC 7

BÀI 34: ĐA DẠNG VÀ ĐẶC ĐIỂM CHUNG CỦA LỚP CÁ

I. Sự đa dạng về thành phần loài và đa dạng về môi trường sống

* Đa dạng về thành phần loài:

- Số lượng loài cá lớn.

- Cá gồm:

+ Lớp cá sụn: Bộ xương bằng chất sụn.

+ Lớp cá xương: Bộ xương bằng chất xương.

* Đa dạng về môi trường sống:

- Điều kiện sống khác nhau đã ảnh hưởng đến cấu tạo và tập tính của cá

II. Đặc điểm chung của cá

- Cá là động vật có xương sống thích nghi với đời sống hoàn toàn ở nước:

+ Bơi bằng vây, hô hấp bằng mang.

+ Tim 2 ngăn, có 1 vòng tuần hoàn, máu đi nuôi cơ thể là máu đỏ tươi.

+ Thụ tinh ngoài.

+ Là động vật biến nhiệt.

III. Vai trò của cá

- Cung cấp thực phẩm.

- Nguyên liệu chế biến thuốc chữa bệnh.

- Cung cấp nguyên liệu cho các ngành công nghiệp.

- Diệt bọ gậy, sâu bọ có hại.

Chủ đề: ẾCH ĐỒNG. SỰ ĐA DẠNG VÀ VAI TRÒ CỦA ẾCH ĐỒNG

Tiết 1: ẾCH ĐỒNG

I. Đời sống

- Đời sống :

+ Ếch đồng có đời sống vừa ở cạn vừa ở nước (sống nơi ẩm ướt)

+ Chúng kiếm ăn vào ban đêm, thức ăn là sâu bọ, cua, giun ốc ...

+ Có hiện tượng trú đông.

+ Là động vật biến nhiệt.

+ Thức ăn của ếch là sâu bọ, giun ốc .. nói lên điều gì ? (Con mồi vừa ở nước vừa ở cạn ếch có đời sống vừa ở nước vừa ở cạn)

II. Cấu tạo ngoài và di chuyển

1. Di chuyển

- Trên cạn : Khi ngồi chi sau gấp thành chữ Z , lúc nhảy chi sau bật thẳng nhảy cóc.

- Dưới nước : Chi sau đẩy nước, chi trước bẻ lái.

* Ếch có hai cách di chuyển: Nhảy cóc (trên cạn). Bơi (dưới nước)

2. Cấu tạo ngoài

Ếch đồng có các đặc điểm cất tạo ngoài vừa thích nghi với đời sống ở nước vừa thích nghi với đời sống ở cạn.

III. Sinh sản và phát triển

- Sinh sản:

+ Ếch sinh sản vào cuối mùa xuân.

+ Thụ tinh ngoài, đẻ trứng.

+ Ếch có tập tính : ếch đực ôm lưng ếch cái đẻ ở cá bờ nước.

- Phát triển: Phát triển qua giai đoạn biến thái.

Trứng thụ tinh → nòng nọc → trải qua một quá trình biến đổi phức tạp qua nhiều giai đoạn → ếch con.

---HẾT---

TUẦN 18 – LỊCH SỬ 7
NỘI DUNG BÀI HỌC

Bài 11:

CUỘC KHÁNG CHIẾN CHỐNG QUÂN XÂM LƯỢC TỐNG (1075-1077)

II – GIAI ĐOẠN THỨ HAI (1076 - 1077)

1. Kháng chiến bùng nổ:

a) Nhà Lý chuẩn bị:

- Mai phục đường bộ, đường biển;
- Lập phòng tuyến sông Như Nguyệt.

b) Diễn biến

- Quân Tống:

+ Quách Qùy dẫn quân bộ vào Lạng Sơn;

+ Hòa Mâu dẫn quân đi đường biển.

- Quân ta:

+ Đánh nhiều trận nhỏ để cản quân bộ;

+ Ngăn chặn quân thủy ở ngoài biển.

c) Kết quả: Quách Qùy tiến đến bờ bắc sông Như Nguyệt nhưng lúng túng vì không có quân thủy hỗ trợ.

2. Cuộc chiến đấu trên phòng tuyến Như Nguyệt:

a) Diễn biến:

- Quân Tống:

+ Nhiều lần vượt sông nhưng thất bại;

+ Mệt mỏi, ốm đau phải phòng ngự.

- Quân ta:

+ Dũng cảm đẩy lùi các cuộc tiến công;

+ Cuối xuân 1077, đánh vào doanh trại giặc;

+ Chủ động đề nghị hòa với quân Tống.

b) Kết quả: Quân Tống chấp nhận giảng hòa và rút về nước.

c) Ý nghĩa:+ Đập tan âm mưu xâm lược của nhà Tống;

+ Bảo vệ vững chắc nền độc lập, tự chủ của đất nước.

Chủ đề ĐẠI VIỆT DƯỚI THỜI TRẦN (Thế kỉ XIII- XIV)

(Thực hiện trong 8 tiết từ tiết 21 đến 28 (Bài 13 đến bài 15))

Bài 13: **NƯỚC ĐẠI VIỆT Ở THẾ KỈ XIII**

I. SỰ THÀNH LẬP NHÀ TRẦN VÀ SỰ CỦNG CỐ CHẾ ĐỘ PHONG KIẾN TẬP QUYỀN (Tiết 21,22)

1. Hoàn cảnh nhà Trần thành lập

- Từ cuối thế kỉ XII, nhà Lý suy yếu:

+ Vua quan ăn chơi, địa phương rối loạn;

+ Thiên tai, đói khổ, dân nghèo nổi dậy.

- Nhà Lý dựa vào họ Trần để chống đỡ.

- Năm 1226, họ Trần ép vua Lý nhường ngôi.

2. Bộ máy nhà nước:

- Tổ chức giống thời Lý, chia làm 3 cấp:

+ Cấp trung ương là triều đình, gồm có:

- Thái thượng hoàng, vua và các quan;
- Đặt thêm các cơ quan: viện, phủ và sứ.

+ Ở địa phương có cấp trung gian là lộ, phủ, huyện và châu. Cấp cơ sở là xã.

- Phong vương hầu, cấp thái ấp và bổng lộc.

* Sơ đồ bộ máy nhà nước thời Trần :

* **Nhận xét:** Bộ máy nhà Trần hoàn chỉnh, chặt chẽ hơn nhà Lý => chứng tỏ chế độ tập quyền thời Trần được củng cố hơn thời Lý.

3. Pháp luật thời Trần:

- Ban hành bộ luật mới là Quốc triều hình luật:

    + Bổ sung thêm luật pháp thời Lý;

    + Bảo vệ tài sản, quy định mua bán ruộng.

- Lập ra Thẩm hình viện để xét xử.

- Đặt chuông kêu oan ở điện Long Trì.

Bài Tập

Câu 1 : Bộ luật nào được ban hành dưới thời Trần?

- A. Hình thư
- B. Hoàng Việt luật lệ
- C. Luật Hồng Đức
- **D. Quốc triều hình luật**

Câu 2: Một chế độ đặc biệt chỉ có trong triều đình nhà Trần, đó là chế độ gì?

- **A. Chế độ Thái thượng hoàng.**
- B. Chế độ lập Thái tử sớm.
- C. Chế độ nhiều Hoàng hậu.
- D. Chế độ Nhiếp chính vương.

Câu 3: Ý nào không phản ánh bối cảnh thành lập nhà Trần đầu thế kỉ XIII?

- A. Thành lập trong bối cảnh nhà Lý suy yếu.
- B. Thế lực họ Trần lớn mạnh trong triều đình.
- **C. Trần Thủ Độ tiến hành đảo chính, đưa Trần Cảnh lên ngôi.**
- D. Lý Chiêu Hoàng kết hôn với Trần Cảnh và nhường ngôi cho chồng.

Câu 4: Đặc điểm nổi bật của nền kinh tế nông nghiệp Đại Việt sau ba lần kháng chiến chống quân xâm lược Mông-Nguyên là gì?

- **A. bị tàn phá nặng nề nhưng được phục hồi nhanh chóng**
- B. phương thức sản xuất mới được du nhập thúc đẩy kinh tế phát triển
- C. không bị ảnh hưởng
- D. bị tàn phá nặng nề, không thể phục hồi

Câu 5: Việc trao đổi buôn bán với thương nhân nước ngoài dưới thời Trần được đẩy mạnh ở đâu?

- A. Thăng Long.
- B. Chương Dương.
- **C. Vân Đồn.**
- D. Các vùng trên.

ĐỊA 7 ÔN TẬP

BÀI 2: SỰ PHÂN BỐ DÂN CƯ CÁC CHỦNG TỘC TRÊN THẾ GIỚI.

BÀI 5, 6: ĐỚI NÓNG, MÔI TRƯỜNG NHIỆT ĐỚI.

BÀI 21: MÔI TRƯỜNG ĐỚI LẠNH

BÀI 25: THẾ GIỚI RỘNG LỚN VÀ ĐA DẠNG

BÀI 27,26: THIÊN NHIÊN CHÂU PHI

Trường THCS Trần Văn Quang Q Tân Bình

BÀI GHI LỚP 7 MÔN GDCD

Tuần 18 (03/01 – 08/01/2022)

BÀI 10: KẾ THỪA VÀ PHÁT HUY TRUYỀN THỐNG TỐT ĐẸP CỦA GIA ĐÌNH, DÒNG HỌ *(Tiết 1)*

I. Truyện đọc: Truyện kể từ trang trại/ SGK

II. Nội dung bài học:

1. **Khái niệm:** *Mỗi gia đình, dòng họ Việt Nam đều có truyền thống tốt đẹp về văn hoá, đạo đức, lao động, nghề nghiệp, học tập,...*

- **Truyền thống:** Là những giá trị tinh thần được hình thành trong quá trình lịch sử lâu dài của một cộng đồng. Nó bao gồm những đức tính, tập quán, tư tưởng, lối sống và ứng xử được truyền từ thế hệ này sang thế hệ khác.
- Truyền thống gia đình, dòng họ là những giá trị tốt đẹp mà gia đình, dòng họ đã tạo ra, được lưu truyền, phát huy từ thế hệ này sang thế hệ khác.

2. **Biểu hiện:** Tự hào về truyền thống tốt đẹp của gia đình, dòng họ
3. **Ý nghĩa:**

- Tự hào về truyền thống của gia đình, dòng họ là thể hiện sự hài lòng, hãnh diện về các giá trị tốt đẹp mà gia đình, dòng họ đã tạo ra.
- Truyền thống của gia đình, dòng họ giúp chúng ta có thêm kinh nghiệm, động lực, vượt gua khó khăn, thử thách và nỗ lực vươn lên để thành công.

Vì vậy: ***Chúng ta cần tự hào, trân trọng, nối tiếp và gìn giữ truyền thống tốt đẹp của gia đình, dòng họ bằng hành động và thái độ phù hợp.***

III. Luyện tập:

Thực hiện các bài tập: *HS viết bài hoặc thiết kế poster để giới thiệu về truyền thống tốt đẹp của gia đình, dòng họ mình.*

- *Giúp HS tự hào về những truyền thống tốt đẹp của gia đình dòng họ và có động lực để giữ gìn và phát huy những truyền thống tốt đẹp ấy.*

IV. Dặn dò:

- Học phần "Nội dung bài học"
- Chuẩn bị Bài 2: Yêu thương con người
- Tìm những việc làm thể hiện lòng yêu thương con người
- Tìm những tấm gương thể hiện lòng yêu thương con người trong cuộc sống hằng ngày…

<u>LUYỆN TẬP</u> : *Bài tập xử lí tình huống*

1 .Hai chị em Hà sinh ra trong một gia đình còn nhiều khó khăn về kinh tế, nhưng bố mẹ luôn yêu thương, dạy bảo hai chị em Hà hết lòng. Không chỉ như vậy, bố mẹ Hà còn luôn sẵn lòng giúp đỡ bà con xóm giềng. Noi gương ông bà, bố mẹ, hai chị em Hà luôn sống chan hòa, đoàn kết, yêu thương và giúp đỡ mọi người. Vì vậy, từ người già đến trẻ nhỏ trong xóm, ai cũng quí mến gia đình Hà ?
<u>Câu hỏi</u>: Em nhận xét gì về gia đình Hà ? Em học tập được truyền thống gì của gia đình Hà ?

2. Gia đình Khuê nhiều đời nay đều làm nghề mộc và kinh doanh đồ gỗ. Những sản phẩm bằng gỗ luôn có sức hút rất lớn đối với Khuê. Khuê thường dành thời gian rảnh rỗi ở xưởng mộc gia đình để học hỏi thêm về nghề của ông cha. Khuê mong sau này sẽ thi đỗ vào ngành điêu khắc để có thể phát huy hơn nữa truyền thống gia đình.

<u>Câu hỏi</u>: Em nhận xét gì về gia đình Khuê? Em học tập được truyền thống gì của gia đình Khuê ?

3. Nêu suy nghĩ của em về câu nói: những giá trị, truyền thống tốt đẹp của gia đình, dòng họ sẽ là hành trang vững chắc cho mỗi người bước vào đời ?

4. Lan là học sinh của lớp 7A1, Ngày chủ nhật của tuần cuối tháng là ngày mà Lan yêu thích nhất. Vì khi đến ngày đó, Lan cùng gia đình tham gia những việc làm thiện nguyện đầy ý nghĩa như: tặng quà cho các cụ già neo đơn; tặng sách vở, quần áo cho trẻ em cơ nhỡ... Theo kế hoạch của gia đình trong lần tới, là đi đến miền Trung để giúp đỡ những gia đình bị tổn thất nhiều trong trận bão lụt vừa qua.

Câu hỏi : Em có suy nghĩ gì về việc làm của bạn Lan cùng gia đình ?

TRƯỜNG THCS TRẦN VĂN QUANG

MÔN ÂM NHẠC LỚP 7

TUẦN 18

TĐN SỐ 6 : XUÂN VỀ TRÊN BẢN

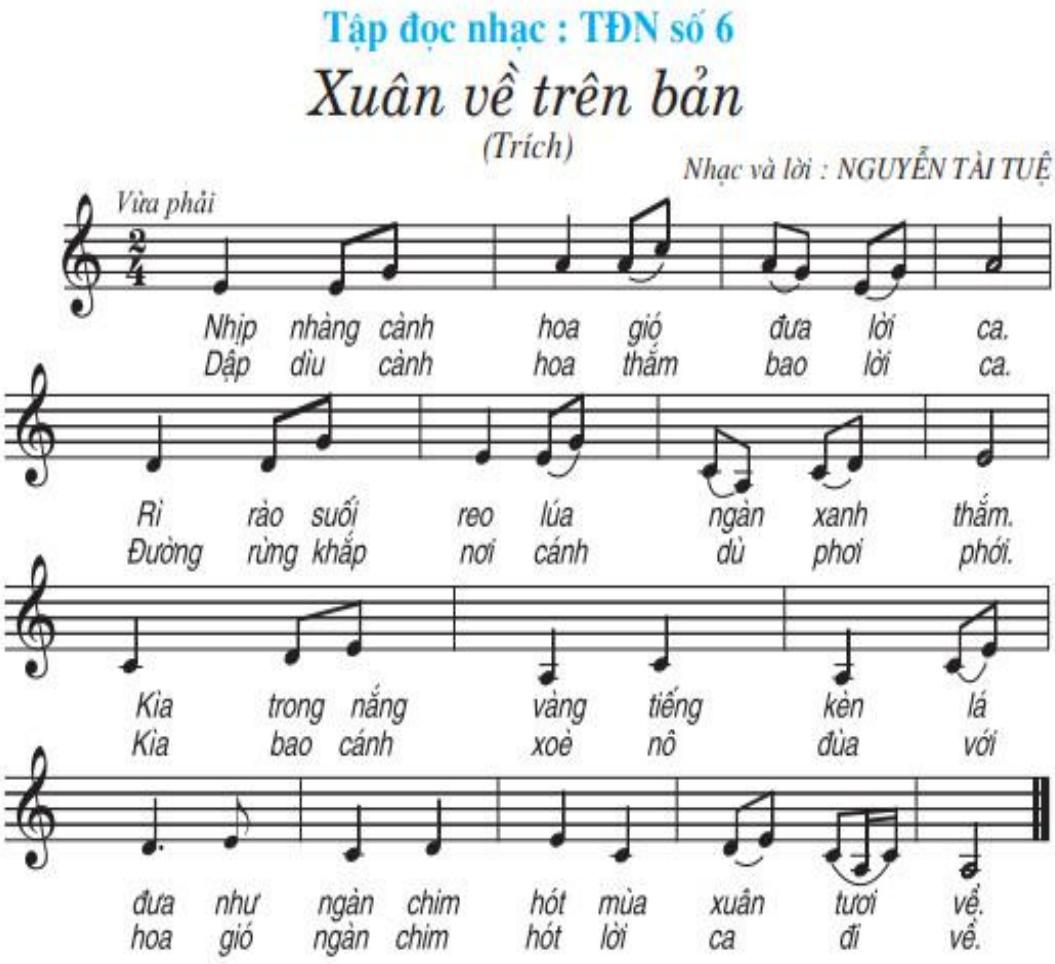

✻ Nhận xét TĐN số 6 :

- Về cao độ : dùng các nốt trong thang 5 âm : La - Đô - Rê - Mi - Son (La). Âm chủ của bài hát là nốt La.

- Về trường độ : có một hình tiết tấu cần chú ý ở nhịp thứ 15, 16.

- Đường nét giai điệu nhẹ nhàng, mềm mại.

CÂU HỎI VÀ BÀI TẬP

1. Học thuộc bài *Đi cắt lúa*. Tìm một số bài dân ca của các dân tộc Tây Nguyên.
2. Luyện bài TĐN số 6 và ghép lời ca.